2020－21・県立対策③

12293－5

受検番号	第　　番

埼玉県公立入試
学力検査問題

社　　会

〈50分間〉

注　　意

1　解答用紙について
(1)　解答用紙は1枚で，問題用紙にはさんであります。
(2)　係の先生の指示に従って，所定の欄に受検番号，氏名を書きなさい。
(3)　答えはすべて解答用紙のきめられたところに，はっきりと書きなさい。
(4)　解答用紙は切りはなしてはいけません。
2　問題用紙について
(1)　表紙の所定の欄に受検番号を書きなさい。
(2)　問題は全部で6問あり，表紙を除いて14ページです。
○　印刷のはっきりしないところは，手をあげて係の先生に聞きなさい。

埼
③
社

IMA-BA-A

2020－21　県立対策③

2020－2 県立対策③

1 Kさんは，地理的分野の授業で，鉄鉱石の産出量上位5か国である，中国，オーストラリア，ブラジル，インド，ロシア連邦について調べました。**地図**をみて，問1～問4に答えなさい。（14点）

地図

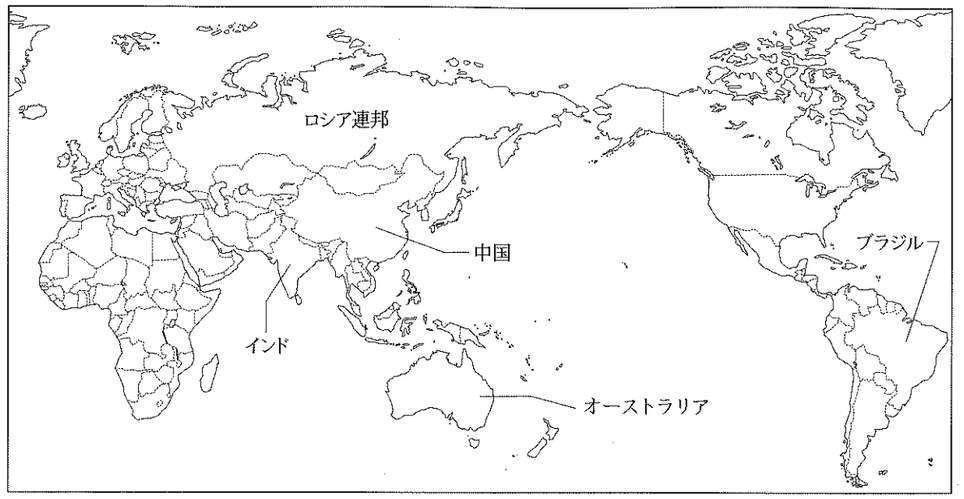

問1　中国，インド，ロシア連邦は，いずれも，6大陸のうち最も面積が大きい大陸に位置しています。この大陸の名称を書きなさい。（3点）

問2　Kさんは，オーストラリアの貿易について調べたところ，日本がこの国から多くの小麦を輸入していることがわかりました。右の**資料**は，オーストラリアをふくむいくつかの国の小麦の収穫期を示しています。資料からわかる，オーストラリアが日本に小麦を輸出する際の利点を，「**収穫**」と「**輸出**」という**二つの語**を用いて書きなさい。（5点）

資料

国＼月	1	2	3	4	5	6	7	8	9	10	11	12
小麦の収穫期												
日本						■	■					
インド			■	■	■							
フランス						■	■	■				
アメリカ合衆国							■	■	■			
アルゼンチン	■	■									■	■
オーストラリア	■	■									■	■

北半球
南半球
収穫期がズレていることに注目．

問3　**表1**は，1960年と2014年におけるブラジルのおもな輸出品とその額を表したものであり，**まとめ**は，**表1**をもとにして，Kさんがブラジルの産業について述べたものです。**まとめ**中の①～③にあてはまる語の組み合わせとして正しいものを，あとの**ア**～**オ**の中から一つ選び，その記号を書きなさい。（3点）

表1

1960年		2014年	
輸出品	輸出額（億ドル）	輸出品	輸出額（億ドル）
①	7.1	鉄鉱石	258.2
カカオ	0.7	大豆	232.8
さとう	0.6	③	173.3
鉄鉱石	0.5	肉類	169.3
綿花	0.5	原油	163.6
その他	3.3	その他	1253.8
合計額	12.7	合計額	2251.0

（世界国勢図会ほかから作成）

まとめ

ブラジルは，かつては［①］などの輸出が多かったことから，この国の産業の中心は［②］だったといえる。

近年は，［③］や自動車などの輸出が多くなっている。このことから，工業化が進んできたことがわかる。

ア　①　オリーブ　②　第一次産業　③　衣類
イ　①　オリーブ　②　第三次産業　③　機械類
ウ　①　コーヒー豆　②　第一次産業　③　機械類
エ　①　コーヒー豆　②　第三次産業　③　機械類
オ　①　コーヒー豆　②　第一次産業　③　衣類

問4　次の**表2**は，鉄鉱石の産出量，鉄鋼（粗鋼）の生産量，鉄鉱石の輸出量と輸入量それぞれの上位5か国を示したものです。**表2**から読みとれる内容を述べた文として正しいものを，下の**ア**～**エ**の中から一つ選び，その記号を書きなさい。（3点）

表2

順位	鉄鉱石の産出量（万t）		鉄鋼（粗鋼）の生産量（万t）	
1	中国	43500	中国	77904
2	オーストラリア	37700	日本	11057
3	ブラジル	24567	アメリカ合衆国	8696
4	インド	9600	インド	8121
5	ロシア連邦	6070	ロシア連邦	6940
	世界計	148000	世界計	158249

順位	鉄鉱石の輸出量（万t）		鉄鉱石の輸入量（万t）	
1	オーストラリア	61338	中国	82018
2	ブラジル	32964	日本	13589
3	南アフリカ共和国	6276	韓国	6337
4	カナダ	3802	ドイツ	4093
5	ウクライナ	3799	オランダ	3188
	世界計	133917	世界計	127615

（データブックオブザワールドから作成）

ア　日本では，鉄鋼の生産に必要な鉄鉱石をすべて国内で産出している。
イ　ブラジルでは，自国で産出した鉄鉱石のすべてを国内で消費している。
ウ　鉄鉱石の世界最大の産出国は，輸入量において世界の50%以上の割合を占めている。
エ　オーストラリアの鉄鉱石の輸出量は，日本の輸入量の5倍以上である。

61338　13589

2 SさんとTさんは，地理的分野の授業で，交通による結びつきなどについて調べることにしました。次は，二人の会話です。これを読み，**地図1**をみて，問1～問5に答えなさい。(16点)

Sさん：日本の国内では，交通網が発達していて，①人の移動や②貨物の輸送が活発に行われているね。
Tさん：国内だけでなく，世界の国々との間も，③貿易などによって結びついているよ。
Sさん：日本が資源や農産物などを輸入している④輸入先の国々と比較して，日本の産業の特色についても調べてみようよ。

地図1

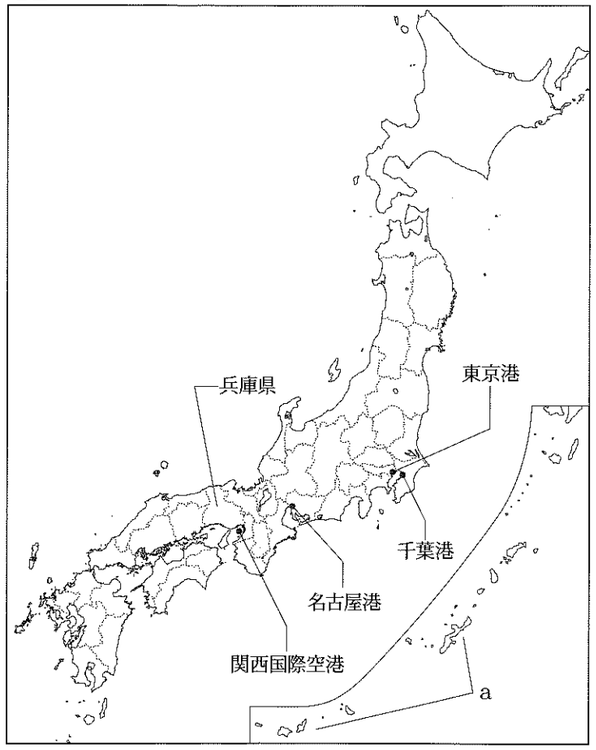

問1　下線部①について，**地図1**中のaの県には，多くの観光客がおとずれています。この県の県庁所在地名を書きなさい。(2点)

問2　下線部②について，次の**グラフ**は，日本の国内貨物輸送の輸送手段別の割合を示したものであり，**グラフ**中のⅠ～Ⅲには，自動車，船，鉄道のいずれかがあてはまります。**グラフ**中のⅠ～Ⅲにあたる輸送手段の組み合わせとして正しいものを，下の**ア**～**カ**の中から一つ選び，その記号を書きなさい。(3点)

グラフ

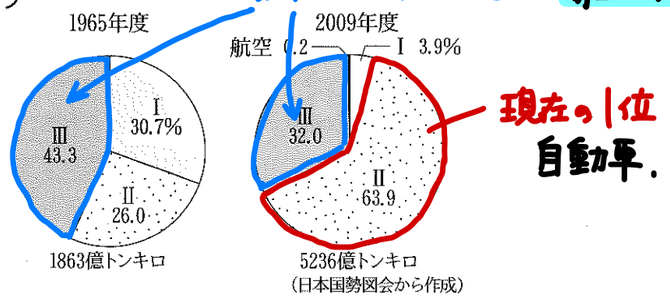

ア	Ⅰ	自動車	Ⅱ	船	Ⅲ 鉄道
イ	Ⅰ	自動車	Ⅱ	鉄道	Ⅲ 船
ウ	Ⅰ	船	Ⅱ	自動車	Ⅲ 鉄道
エ	Ⅰ	船	Ⅱ	鉄道	Ⅲ 自動車
オ	Ⅰ	鉄道	Ⅱ	自動車	Ⅲ 船
カ	Ⅰ	鉄道	Ⅱ	船	Ⅲ 自動車

問3　下線部③について，次の**表**は，**地図1**中に示した東京港，千葉港，名古屋港，関西国際空港の輸出入金額が多い上位5品目をまとめたものです。関西国際空港にあたるものを，**表**中の**ア**～**エ**の中から一つ選び，その記号を書きなさい。(3点)

表

	ア 輸出	ア 輸入	イ 輸出	イ 輸入
1位	自動車	液化ガス	石油製品	石油
2位	自動車部品	石油	有機化合物	液化ガス
3位	内燃機関	衣類	鉄鋼	自動車
4位	金属加工機械	アルミニウム	自動車	鉄鋼
5位	電気計測機器	絶縁電線・ケーブル	プラスチック	有機化合物

	ウ 輸出	ウ 輸入	エ 輸出	エ 輸入
1位	コンピュータ部品	衣類	集積回路	医薬品
2位	自動車部品	コンピュータ	個別半導体	通信機
3位	プラスチック	魚介類	科学光学機器	集積回路
4位	科学光学機器	肉類	電気回路用品	科学光学機器
5位	電気回路用品	音響・映像機器	通信機	有機化合物

(日本国勢図会から作成)

問４　下線部④について，次の**まとめ**は，日本の農業の特色について述べたものです。また，**図１**，**図２**は，日本，アメリカ合衆国，オーストラリアの農業について比較したものです。日本の農産物の価格が輸入農産物と比べて高くなっているのは，日本の農業が，主要な輸入先であるアメリカ合衆国やオーストラリアなどの農業と比較してどのようなものであるからですか。**まとめ，図１，図２**を活用し，「**人手や肥料**」と「**耕地**」という**二つの語**を用いて書きなさい。

（５点）

まとめ

日本の農業の特色として，単位面積あたりの収穫量が多いことがあげられる。しかし，国産農産物の価格は，輸入農産物と比べて高くなっており，最近では，野菜のような新鮮さが要求される作物も空輸が可能となったため，国内産は安い輸入農産物におされ気味である。

図１　耕地100ヘクタールあたり農業従事者

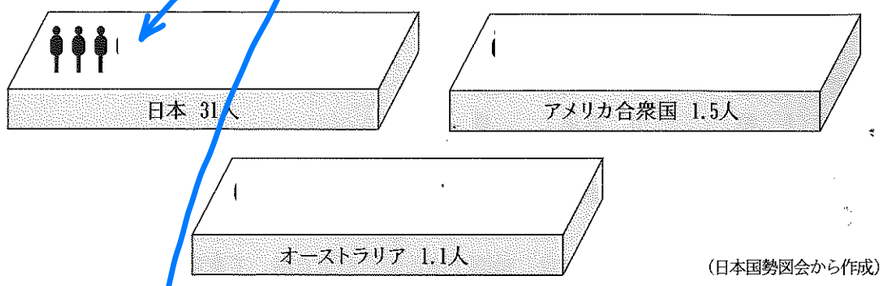

（日本国勢図会から作成）

図２　耕地１ヘクタールあたり肥料消費

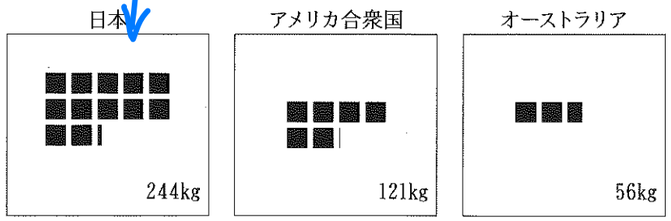

■＝20kg

（日本国勢図会から作成）

特色…「まとめ」から

収穫量は多いが，価格は高い

外国と比べると　図1・図2より

耕地は広くても，人手と肥料を多く使っている

問５　次の**地図２**は，**地図１**中の兵庫県にある神戸市の一部を示した２万５千分の１の地形図です。**地図２**から読みとれる内容を述べた文として下線部が正しいものを，下のア～オの中からすべて選び，その記号を書きなさい。（３点）

地図２

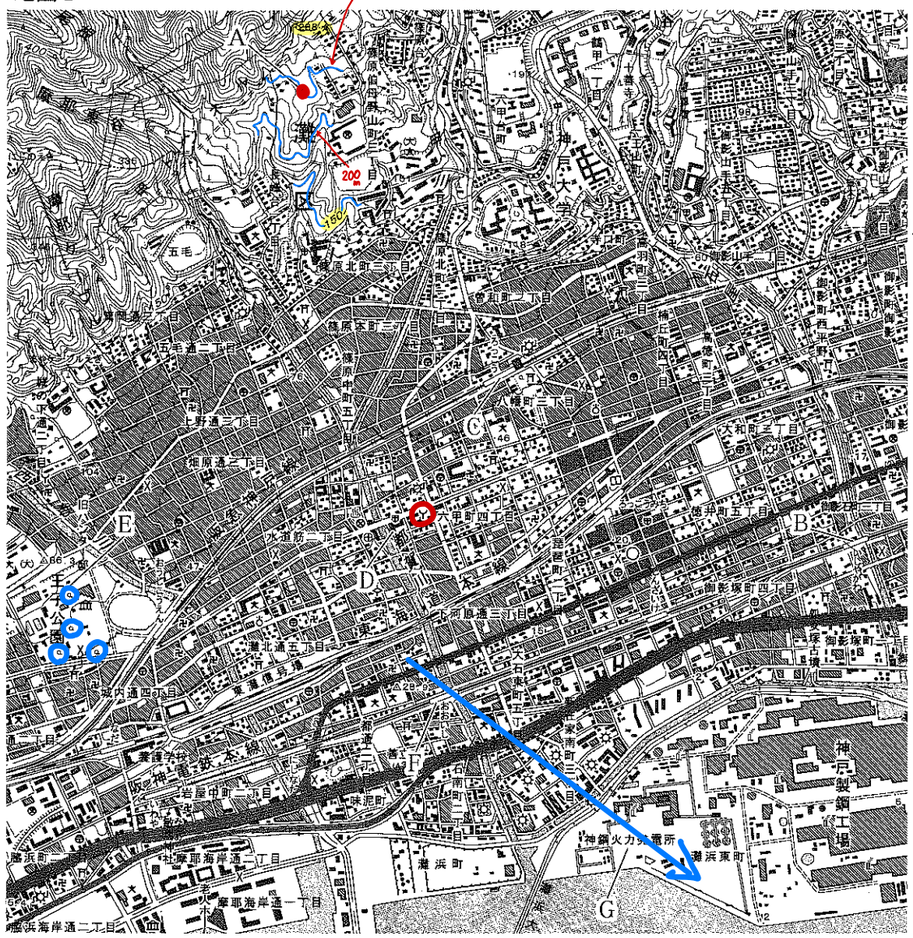

（国土地理院２万５千分の１地形図「神戸首部」平成17年発行一部改変）

○ア　Ａ地点の高さは，標高200mより高い。

×イ　Ｂの「いしやがわ」駅からＣの「ろっこう」駅までの直線距離は，地図上で約６cmであり，実際の直線距離は約3000mである。

×250

○ウ　Ｄの病院のそばには，消防署がある。

×エ　Ｅの王子公園には，針葉樹林がみられる。

×オ　Ｆの「おおいし」駅からみると，Ｇの神鋼火力発電所はおよそ真西の方向にある。

南東

3 Aさんたちは，自分が興味をもっている人物などについて調べました。次の5人のまとめをみて，問1～問5に答えなさい。(15点)

Aさん	中大兄皇子は，中臣鎌足らとともに豪族の蘇我氏をたおし，大化の改新とよばれる政治改革を進めた。
Bさん	藤原頼通は，父である藤原道長とともに一族の全盛期を築き，摂政・関白として政治の実権をにぎった。
Cさん	源頼朝の妻である北条政子は，頼朝の死後も大きな権力を保ち，承久の乱のときには御家人に団結を求める演説を行った。
Dさん	足利尊氏は，建武の新政を行っていた後醍醐天皇を京都から追いはらい，別の天皇を立てて幕府を開いた。
Eさん	江戸幕府15代将軍である徳川慶喜は，政権を朝廷に返上する大政奉還を行い，これによって約260年続いた江戸時代が終わった。

問1　次のX～Zについて，Aさんの調べた大化の改新が行われた7世紀のできごとを述べた文として，その正誤の組み合わせが正しいものを，下のア～エの中から一つ選び，その記号を書きなさい。(3点)

古墳 ×
X：最大級の前方後円墳として知られる大山（大仙）古墳がつくられた。
○ Y：日本は朝鮮半島の百済に援軍を送り，白村江の戦いで唐と新羅の連合軍に敗れた。663
○ Z：天皇の位をめぐって壬申の乱がおこり，乱後，天武天皇が即位した。672

ア　X 正　Y 正　Z 誤　　イ　X 正　Y 誤　Z 正
ウ　X 誤　Y 正　Z 正　　エ　X 誤　Y 正　Z 誤

問2　Bさんは，藤原頼通について調べ，**資料1**をみつけるとともに，藤原頼通が後三条天皇の即位に反対したことを知りました。**資料1**をみて，藤原頼通が後三条天皇の即位に反対した理由を説明しなさい。(5点)

<王道>

資料1

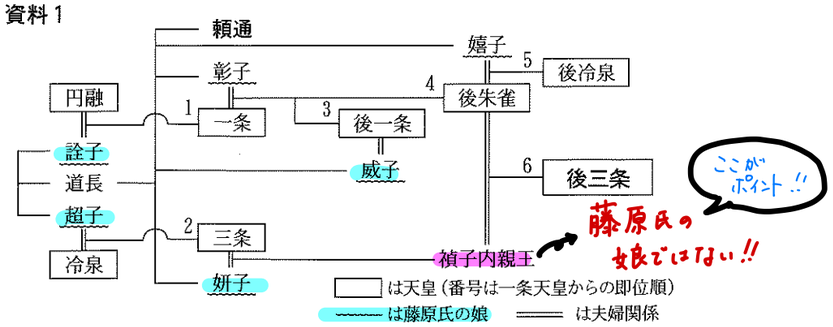

問3　次の文章は，Cさんが，北条政子についてさらに調べたことをまとめたものです。**まとめ**の中の［　　］にあてはまる語を書き，文章を完成させなさい。(3点)

まとめ

資料2は，承久の乱のときに北条政子が行った演説の部分要約である。**資料2**中の御恩を受けた御家人は，承久の乱のときのように戦乱がおこったときには，将軍のために命がけで戦うなどの義務を果たさねばならないとされていた。このことを，御恩に対する［　　］という。

資料2

みなの者よく聞きなさい。亡き頼朝公が幕府を開いてから，その御恩は山よりも高く海よりも深い。この御恩にむくいる心が浅くてよいはずがない。…敵をうち，幕府を守りなさい。

問4　Dさんは足利尊氏が開いた幕府があった室町時代について調べたところ，次のa，bの文と**資料3**，**資料4**をみつけました。この幕府に関して述べた文と，この時代と最も関係の深いものとの組み合わせとして正しいものを，**表**中のア～エの中から一つ選び，その記号を書きなさい。(2点)

a　将軍の下に管領とよばれる補佐役が置かれていた。
b　将軍の下に老中が置かれ，若年寄の補佐を受けて政治を行った。

資料3



一向一揆の旗

資料4


からかさ連判状

表

	幕府に関して述べた文	最も関係の深いもの
ア	a	資料3
イ	a	資料4
ウ	b	資料3
エ	b	資料4

問5　Eさんの調べた江戸時代の文化について述べた文として正しいものを，次のア～エの中から一つ選び，その記号を書きなさい。(2点)

ア　千利休によって，茶の湯（わび茶）の作法が大成された。　桃山文化
イ　松尾芭蕉が『奥の細道』などを著し，俳諧を芸術に高めた。
ウ　観阿弥と世阿弥の親子によって，能（能楽）が大成された。　北山文化（室町）
エ　出雲の阿国によって，かぶき踊りが始められた。　桃山文化

4 次の年表をみて，問1～問5に答えなさい。(15点)

西暦(年)	できごと
1889	・大日本帝国憲法が発布される……A
1894	・日清戦争がおこる……B
1918	・米騒動がおこる……C
1929	・世界恐慌がおこる……
	D
1941	・太平洋戦争がおこる……
1956	・日本が国際連合に加盟する……
	E
1978	・日中平和友好条約が結ばれる……

問1 年表中Aの憲法について述べた文として正しいものを，次のア～エの中から一つ選び，その記号を書きなさい。(2点)

ア この憲法の草案は，アメリカ合衆国憲法を特に参考にして作成された。

イ 福沢諭吉がこの憲法の草案作成の中心となった。

ウ この憲法は，第1回帝国議会における審議を経て発布された。

エ この憲法では，国民の権利が法律の範囲内で保障された。

1889 憲法発布
1890 第1回帝国議会 順番

問2 年表中Bについて，次の**資料**は，日清戦争のころの東アジア情勢についての風刺画であり，**まとめ**は，**資料**について説明したものです。［①］と［②］にあてはまる語の組み合わせとして正しいものを，下のア～エの中から一つ選び，その記号を書きなさい。(2点)

資料



まとめ

日本を表す左の人物と清を表す右の人物が，［①］を表す魚をつり上げようとしており，その様子を，［②］を表す人物が橋の上からうかがっている。

ア ① 樺太 ② ロシア　　イ ① 樺太 ② イギリス

ウ ① 朝鮮 ② ロシア　　エ ① 朝鮮 ② イギリス

問3 年表中Cについて，右の**グラフ**は，米騒動のころの米価の移り変わりを示したものです。**グラフ**にみられるような米価の急上昇がおこった原因を，当時日本が行った軍事行動にふれて書きなさい。(5点)

1917 ロシア革命 → シベリア出兵 → 1918 米騒動

グラフ

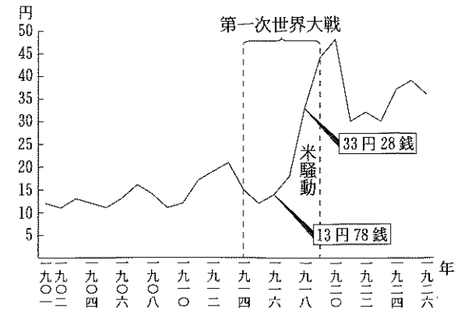

問4 次のア～エは，年表中Dの時期の世界と日本のできごとについて述べたものです。年代の古い順に並べかえ，その順に記号で書きなさい。(3点)

1931 ア 南満州鉄道の爆破事件をきっかけに，満州事変が始まった。

1937 イ 北京郊外で日本軍と中国軍の軍事衝突がおこり，日中戦争が始まった。

1933 ウ 日本が国際連盟を脱退した。

1932 エ 清朝最後の皇帝を元首とする満州国が建国された。

なかなか細かい

問5 次の文章は，年表中Eの時期の様子についてまとめたものです。**まとめ**の中の［　　］にあてはまる語を**漢字6字**で書き，文章を完成させなさい。また，**まとめ**の中の下線部と関係が深い世界のできごとして正しいものを，下のア～エの中から一つ選び，その記号を書きなさい。(3点)

まとめ

日本経済は，1950年代後半から［　　］とよばれる世界でも例をみないほどの目ざましい経済発展をとげた。1973年に石油危機がおこると，日本経済も大きな影響を受け，これによって日本の［　　］は終わりをつげることとなった。

ア ベトナム戦争　　イ 第四次中東戦争　　ウ 朝鮮戦争　　エ 湾岸戦争

5 次の表は，Kさんが，公民的分野で学習したことのうち，特に興味をもったことがらについてまとめたものです。これをみて，問1～問8に答えなさい。(25点)

表

人権思想の発達	18世紀に平等権や自由権，①20世紀に社会権が確立した。第二次世界大戦後には②国際連合が世界の人々の人権の保障に取り組んでいる。
地方自治	③地方公共団体を単位として地方自治が行われている。住民による自治は民主主義の原点であることから，「地方自治は民主主義の学校」といわれる。
立法と行政	日本では，④国会が法律を制定し，それにもとづいて⑤内閣が政治を行っている。⑥裁判所は法律や国の行為が憲法に違反していないかを審査する。
日本国憲法	日本国憲法は，国民主権・基本的人権の尊重・⑦平和主義を基本原理としている。日本国憲法では，⑧天皇の地位や仕事についても定められている。

問1　下線部①について，ワイマール憲法は，社会権の中心となる生存権（人間に値する生存）を初めて明確に規定したことで知られています。この憲法が制定された国として正しいものを，次のア～エの中から一つ選び，その記号を書きなさい。(2点)

ア　ドイツ　　イ　フランス　　ウ　イギリス　　エ　アメリカ合衆国

問2　下線部②について，1948年に国際連合で採択された，世界の人権保障の規範となっている宣言を何といいますか，その名称を書きなさい。(3点)

世界人権宣言

問3　下線部③について，次のグラフは，ある年におけるA県・B県の歳入の割合を示したものです。グラフについてのまとめの中の［　　］にあてはまる内容を，地方交付税交付金がどのような資金であるかを明らかにして，「地方税」という語を用いて書きなさい。(5点)

グラフ

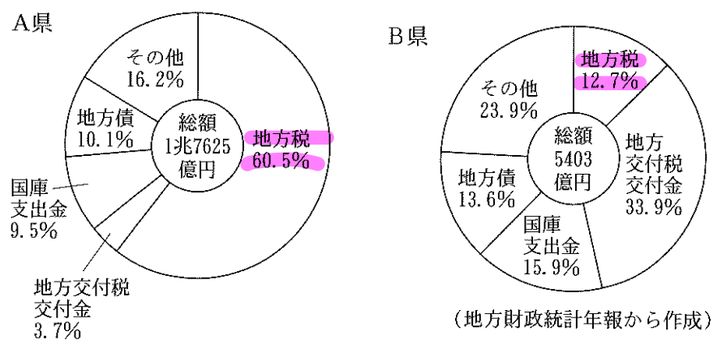

(地方財政統計年報から作成)

まとめ

B県の歳入にしめる地方交付税交付金の割合は，A県のそれに比べて高くなっている。これは，B県はA県に比べて，［　　］からである。

地方交付税交付金は
① 税収が少ない自治体に重点される
② 財政格差を埋めるため
③ 使い道は自由

問4　下線部④について述べた次のX～Zについて，その正誤の組み合わせとして正しいものを，下のア～エの中から一つ選び，その記号を書きなさい。(3点)

3分の2以上 再可決パターン

X：法律案は，衆議院と参議院のうち，必ず先に衆議院に提出される。
Y：衆議院と参議院の両方が法律案を可決しないと，法律を成立させることはできない。
Z：衆議院と参議院の議決が異なった場合には，両院協議会が開かれることがある。

ア　X 正　Y 正　Z 誤　　イ　X 正　Y 誤　Z 正
ウ　X 誤　Y 正　Z 正　　エ　X 誤　Y 誤　Z 正

問5　下線部⑤に関連して，内閣不信任決議案が可決された場合について述べた次の文章と，右下の図の［　Ⅰ　］と［　Ⅱ　］にあてはまる語を，それぞれ書きなさい。(4点)

内閣不信任決議案が可決された場合，内閣は10日以内に衆議院を解散するか，［　Ⅰ　］をする。衆議院を解散した場合には40日以内に総選挙が実施され，その後30日以内に国会が召集される。国会の種類のうち，この国会を［　Ⅱ　］という。［　Ⅱ　］が召集されると内閣は［　Ⅰ　］をし，その後，新しい内閣総理大臣が指名される。

図

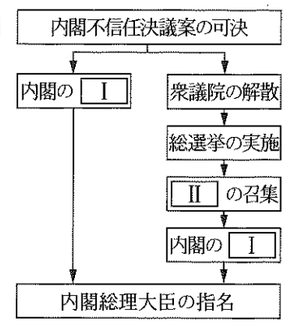

問6　下線部⑥に関連して，裁判所や裁判官について説明した文として正しいものを，次のア～オの中からすべて選び，その記号を書きなさい。(3点)

ア　裁判の第一審の判決に不服がある場合，上告を行って第二審を求めることができる。
イ　不正をはたらいた裁判官は，内閣による弾劾裁判でやめさせられることがある。
ウ　最高裁判所の裁判官は，国民審査によって適任かどうかを審査される。
エ　国民から選ばれた裁判員が，地方裁判所で行われる民事裁判に参加する場合がある。
オ　最高裁判所で判決が確定したあとに，やり直しの裁判である再審が行われる場合がある。

消去法で残る.

問7　下線部⑦について，日本は，平和主義の精神を実現するために核兵器を「持たず，つくらず，持ちこませず」という原則を表明しています。この原則は一般に何と呼ばれますか。書きなさい。(3点)

非核三原則

問8　下線部⑧に関連して，天皇の仕事について述べた文として正しいものを，次のア～エの中から一つ選び，その記号を書きなさい。(2点)

ア　外国と条約を結ぶ。
イ　法律を公布する。　"天皇が国民の名で公布する"
ウ　予算を作成して国会に提出する。
エ　最高裁判所の長官を指名する。

他は全て内閣の仕事.

6 Mさんは，愛知県の歴史や産業の様子について調べ，**表**にまとめました。これをみて，問１～問５に答えなさい。(15点)

表

歴史	・愛知県の昔の国名は，西部は尾張，東部は三河である。戦国時代には，この地域出身の①織田信長，豊臣秀吉，徳川家康の３人の武将が活躍した。 ・江戸時代には，徳川氏の親類の②大名の中でも有力な尾張徳川家があり，水戸，紀伊の徳川家とともに御三家とよばれた。
産業	・野菜や花，くだものなどの生産がさかんに行われており，③生産量が全国有数となっている農産物もある。 ・中京工業地帯が広がっており，各種の④工業がさかんである。⑤豊田市は，日本有数の自動車会社の企業城下町として発展している。

問１　次は，下線部①の織田信長に関してまとめた文章です。文章中の［ X ］と［ Y ］にあてはまる語として正しいものを，［ X ］はⅠ群中の**ア～ウ**の中から，［ Y ］はⅡ群中のａ～ｃの中からそれぞれ一つずつ選び，その記号を書きなさい。(３点)

織田信長は，［ X ］で今川義元を破るなどして勢力を拡大し，統一事業を進めていった。本拠地として建てた［ Y ］の城下では，楽市楽座の政策を実施し，商工業の発展をはかった。

Ⅰ群	ア　壇ノ浦の戦い	Ⅱ群	ａ　大阪城
	イ　長篠の戦い		ｂ　姫路城
	ウ　桶狭間の戦い		ｃ　安土城

問２　下線部②について，
1635年に制度化され，大名に義務づけられた参勤交代とはどのような制度ですか。「**妻子**」と「**領地**」という**二つの語**を用いて書きなさい。(５点)

問３　下線部③について，右の**グラフ１**は，ある農産物の県別生産量割合を示したものです。この農産物として正しいものを，次の**ア～エ**の中から一つ選び，その記号を書きなさい。
(２点)

グラフ１



(日本国勢図会から作成)

ア　キャベツ　　イ　なす
ウ　ピーマン　　エ　きゅうり

問４　下線部④に関連して，次の**グラフ２**は，日本における工業出荷額のうちわけの移り変わりを示したものです。**グラフ２**から読みとれる内容を述べた文として正しいものを，下の**ア～エ**の中から一つ選び，その記号を書きなさい。(２点)

グラフ２

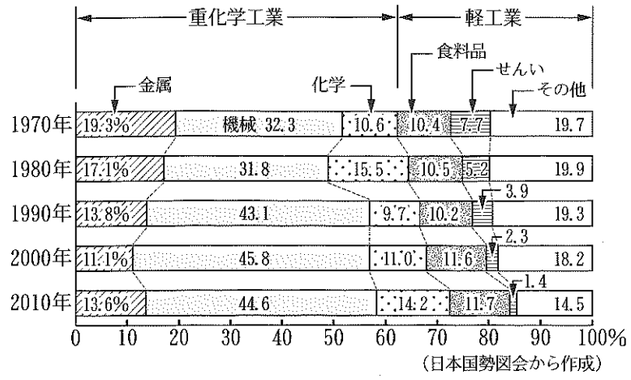

(日本国勢図会から作成)

ア　金属工業の割合は，どの年も機械工業の割合の２分の１以下である。
イ　化学工業の割合が，食料品工業の割合よりも低かった年はない。
ウ　せんい工業の割合は，一度増加したのちに減少に転じている。
エ　重化学工業の割合が70%を上回ったのは，2000年から2010年にかけてのことである。

問５　下線部⑤に関連して，豊田市などの地方公共団体について述べた文として正しいものを，次の**ア～オ**の中から**すべて**選び，その記号を書きなさい。(３点)

ア　地方公共団体は，独自のきまりである条例を定めることができる。
イ　地方公共団体の住民は，重大な問題について，住民投票によってその意思を明らかにすることができる場合がある。
ウ　市町村長に立候補できる年齢は，満30歳以上である。
エ　国から地方公共団体に仕事や財源を移すノーマライゼーションが進められている。
オ　首長は，地方議会が議決した予算を拒否して審議のやり直しを求めることができる。

(以上で問題は終わりです。)

2020 - 2 県立対策 ③

埼玉県公立入試
学力検査問題　　社　会　　解答用紙

1　/14

問1	ユーラシア　大陸	3
問2	日本やアメリカなど北半球の国と収穫期が異なるので時期をずらして輸出することができる点。	5
問3	ウ	3
問4	ウ	3

① 2点 表からわかること　② 3点 利点

2　/16

問1	那覇市	2
問2	オ	3
問3	エ	3
問4	①日本はアメリカやオーストラリアよりも耕地はせまいが、②人手や肥料を多く使っているので単位面積あたりの収穫量は多いものの価格が高い。③	5
問5	ア．ウ	3

① 1点　② 2点　③ 2点

3　/15

問1	ウ	3
問2	後三条天皇の母親が藤原氏の娘ではない ⟶ から。 …ので、天皇の外戚としてふるまえなくなるから。	5
問3	奉公	3
問4	ア	2
問5	イ	2

0 or 5点

ここまで書けたらすばらしい。

4　/15

問1	エ	2
問2	ウ	2
問3	①シベリア出兵を見こして ②商人たちが米の買い占めをおこなったから。	5
問4	ア → エ → ウ → イ	3
問5	(語) 高度経済成長　(記号) イ	3

① 2点　② 3点

5　/25

問1	ア	2
問2	世界人権宣言	3
問3	①地方税による収入が少ないので、②財政格差を埋めるために③地方交付税交付金が配分されているから。	5
問4	エ	3
問5	I 総辞職　II 特別会（特別国会）	4
問6	ウ．オ	3
問7	非核三原則	3
問8	イ	2

① 2点　② 3点　③ 1点

※憲法には書かれていないことである。

6　/15

問1	X ウ　Y C	3
問2	①人質として妻子は江戸に残したまま、②1年おきに江戸と領地を往復する制度。	5
問3	ア	2
問4	エ	2
問5	ア．イ．オ	3

① 2点　② 3点

得点	/100	受検番号	第　番	氏名	

2020 - 2 | 県立対策 ③

埼玉県公立入試
学力検査問題　　社　会　　解答用紙

1　/14

問1	大陸　3
問2	5
問3	3
問4	3

2　/16

問1	2
問2	3
問3	3
問4	5
問5	3

3　/15

問1	3
問2	5
問3	3
問4	2
問5	2

4　/15

問1	2
問2	2
問3	5
問4	→ → → 3
問5	(語)　(記号)　3

5　/25

問1	2
問2	3
問3	5
問4	3
問5	I　II　4
問6	3
問7	3
問8	2

6　/15

問1	X　Y　3
問2	5
問3	2
問4	2
問5	3

得点	/100	受検番号	第　番	氏名	